Fiche devoirs (1)

Trace la figure symétrique

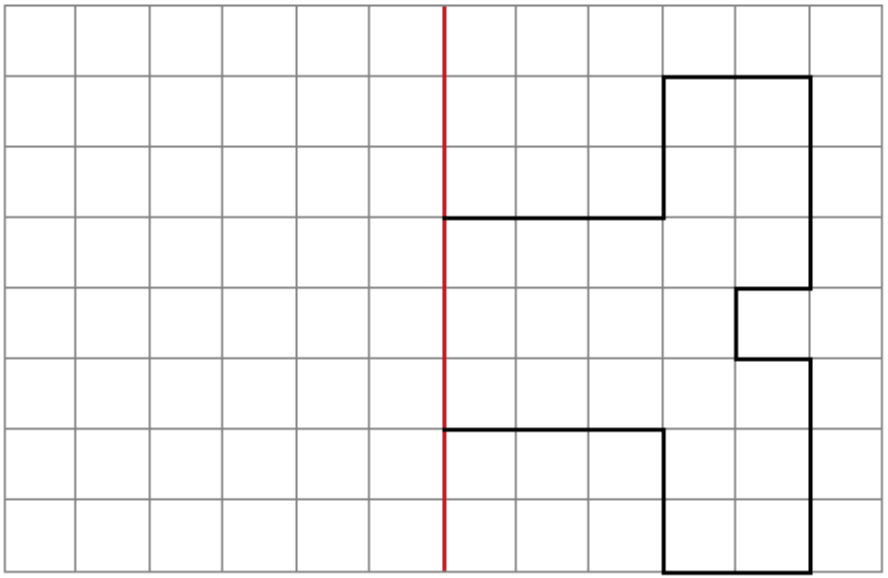

Trace la figure symétrique

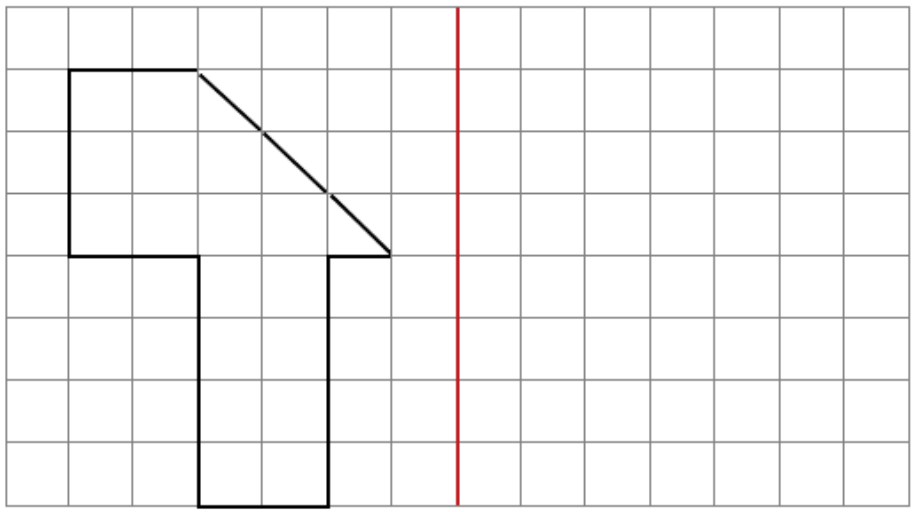

Fiche devoirs (2)

Trace la figure symétrique

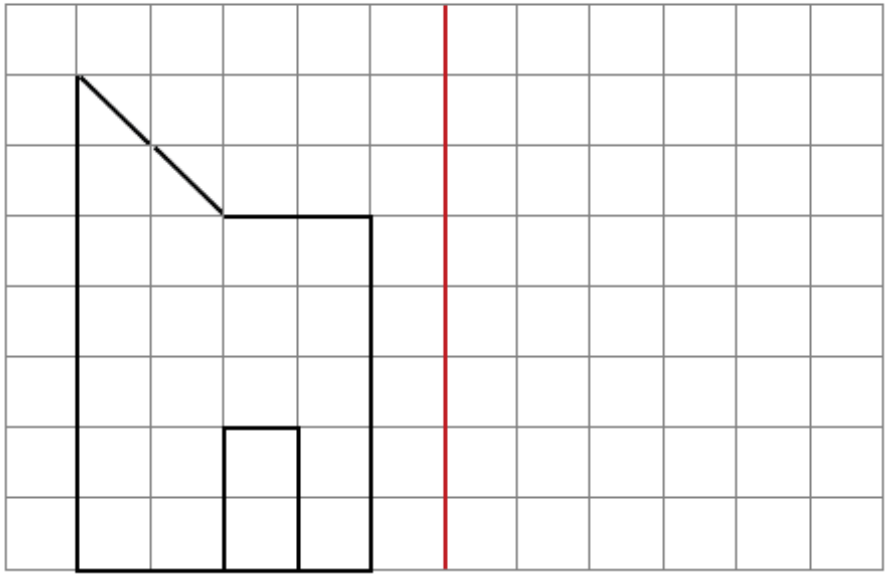

Trace la figure symétrique

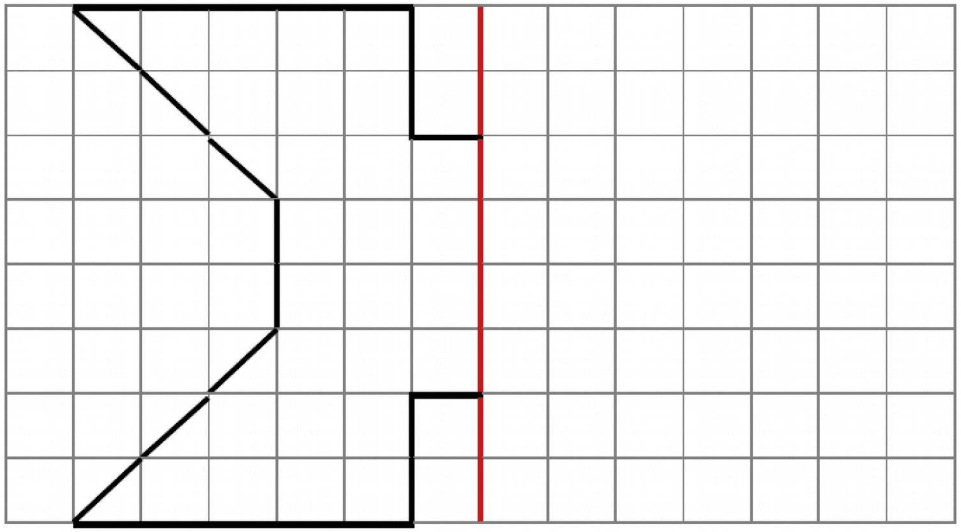

Exercice :

Entoure les figures pour lesquelles l'axe est un axe de symétrie :

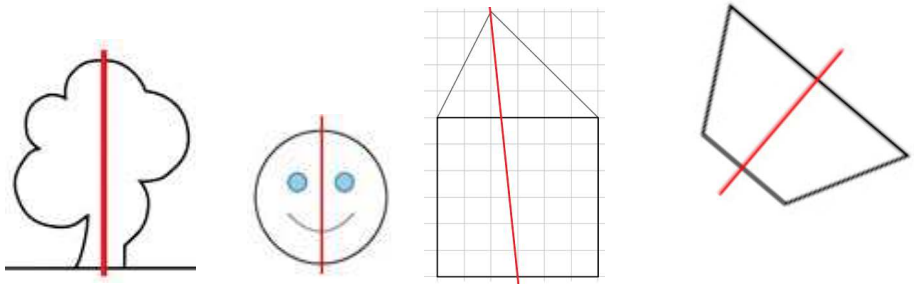

Exercice :

Décalque ces figures et plie-les pour trouver leurs axes de symétrie puis trace-le sur les figures :



Exercice :

Trace un rectangle de 12 cm de longueur et de 4 cm de largeur dans ton cahier et cherche ses axes de symétrie.

Pourcentages :

1/ Colorie 50 carreaux sur les 100, en remplissant ligne par ligne :



A quelle fraction cela correspond-il ?

$$\frac{50}{100} = \frac{\dots}{\dots}$$

Donc faire 50 % d'un prix, c'est calculer ……

2/ Cherche comment faire 25% :



A quelle fraction cela correspond-il ?

$$\frac{25}{100} = \frac{\dots}{\dots}$$

<u>Donc faire 25 % d'un prix, c'est calculer ……</u>